WWW.ALEVELAPI.COM

ශ්‍රී ලංකා විභාග දෙපාර්තමේන්තුව

අ.පො.ස. (උ.පෙළ) විභාගය - 2014

10 - සංයුක්ත ගණිතය II

ලකුණු දීමේ පටිපාටිය

www.alevelapi.com

උසස් පෙළ විද්‍යා/ගණිත/කලා/වාණිජ හා තාක්ෂණ විෂය ධාරාවන්ට අදාල සියලුම ප්‍රශ්න පත්‍ර/සටහන් හා තවත් බොහෝ දෑ ලබා ගැනීමට පිවිසෙන්න www.alevelapi.com වෙත.

අ.පො.ස. (උ.පෙළ) විභාගය - 2014

10 - සංයුක්ත ගණිතය

ලකුණු බෙදීයාම

II කොටස

II පත්‍රය :

A කොටස	:	10 x 25	=	250
B කොටස	:	05 x 150	=	750
එකතුව			=	1000 / 10

II පත්‍රය - අවසාන ලකුණු = 100

www.alevelapi.com

උසස් පෙළ විද්‍යා/ගණිත/කලා/වාණිජ හා තාක්ෂණ විෂය ධාරාවන්ට අදාල සියලුම ප්‍රශ්න පත්‍ර/සටහන් හා තවත් බොහෝ දෑ ලබා ගැනීමට පිවිසෙන්න www.alevelapi.com වෙත.

1. තිරස් තිමක් මත වූ O ලක්ෂ්‍යයක සිට u වේගයෙන් තිරස සමඟ $\frac{\pi}{4}$ කෝණයක් සාදන දිශාවකින්, උස a වූ ද O සිට $2a$ තිරස් දුරකින් වූ ද සිරස් තාප්පයක් දෙසට අංශුවක් ගුරුත්වය යටතේ ප්‍රක්ෂේප කරනු ලැබේ. $u > 2\sqrt{ga}$ නම්, අංශුව තාප්පයට ඉහළින් යන බව පෙන්වන්න.

$u > 2\sqrt{ga}$ යැයි ගනිමු.

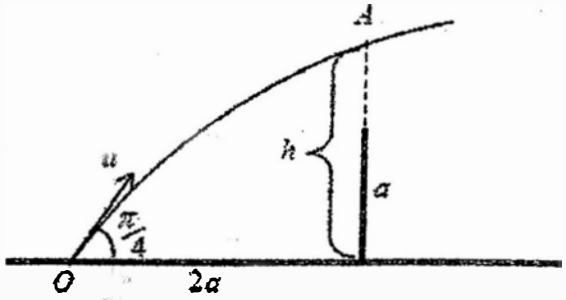

O සිට A දක්වා චලිතය සඳහා : $s = ut + \frac{1}{2}at^2$ යෙදීමෙන්

$$\rightarrow \quad 2a = u\cos\left(\frac{\pi}{4}\right)t \quad (5)$$

$$t = \frac{2\sqrt{2}a}{u}$$

$$\uparrow \quad h = u\sin\left(\frac{\pi}{4}\right)t - \frac{1}{2}gt^2 \quad (10)$$

$$= 2a - \frac{1}{2}g.\frac{8a^2}{u^2} = 2a - \frac{4ga^2}{u^2} \quad (5)$$

$$> 2a - \frac{4ga^2}{4ga} \quad (\because u^2 > 4ga)$$

$$= a$$

$\Rightarrow h > a$ වන අතර එමනිසා අංශුව බිත්තියට ඉහළින් යයි. (5)

25

---

2. ස්කන්ධය M kg වූ වාහනයක්, සැහැල්ලු අවිතතා කේබලයක් මගින් එම ස්කන්ධය ම සහිත ට්‍රේලරයක් සෘජු තිරස් පාරක් දිගේ ඇදගෙන යයි. වාහනයේ චලිතයට හා ට්‍රේලරයේ චලිතයට ප්‍රතිරෝධ පිළිවෙළින් නිවටන R හා $2R$ වේ. වාහනයේ එන්ජිම P kW ජවයකින් ක්‍රියා කරමින් වාහනය V m s^{-1} වේගයෙන් චලනය වෙමින් තිබෙන මොහොතේ දී කේබලයේ ආතතිය නිවටන $\frac{1}{2}\left(R + \frac{1000P}{V}\right)$ බව පෙන්වන්න.

පකර්ෂණ බලය $F = \frac{1000P}{V}N$. (5)

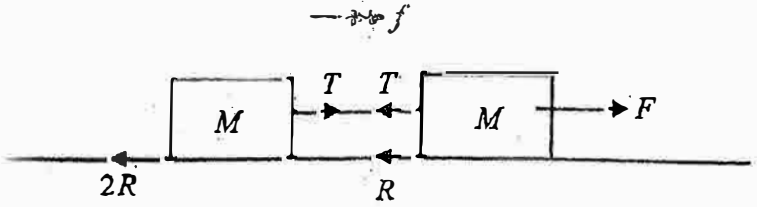

Alevel Lapi උසස් පෙළ විද්‍යා/ගණිත/කලා/වාණිජ හා තාක්ෂණ විෂය ධාරාවන්ට අදාල සියලුම ප්‍රශ්න පත්‍ර/සටහන් හා තවත් බොහෝ දෑ ලබා ගැනීමට පිවිසෙන්න www.alevelapi.com වෙත.

$\underline{F} = m\underline{a}$ ⟶ පද්ධතිය සඳහා: $F - 3R = 2Mf$ ------ (i) 10

⟶ ට්‍රේලරය සඳහා: $T - 2R = Mf$ ------ (ii) 5

(i) සහ (ii) න්,

$$2(T - 2R) = F - 3R$$

$$T = \frac{1}{2}(R + F) \quad 5$$

$$= \frac{1}{2}\left(R + \frac{1000P}{V}\right) N.$$

25

---

3. ස්කන්ධය m වූ P අංශුවක් සුමට තිරස් ගෙබිමක් මත, u වේගයෙන් සිරස් බිත්තියක් දෙසට, බිත්තියට ලම්බ සරල ඡර්ධාවක චලනය වේ. බිත්තිය සමග ගැටීමට පෙර P අංශුව, එහි පෙතෙහි නිශ්චලව ඇති එම ස්කන්ධය ම සහිත තවත් Q අංශුවක් සමග සරල ලෙස ගැටෙන අතර, Q අංශුව ඉන්පසුව බිත්තියේ ගැටී පොලා පනී. ගැටුම් දෙක ම සඳහා ප්‍රත්‍යාගති සංගුණකය e $(0 < e < 1)$ වේ. Q අංශුව මත බිත්තියෙන් ඇති කරන ආවේගය $\frac{1}{2}(1+e)^2 mu$ බව පෙන්වන්න.



පළමු ගැටුම සඳහා

$\underline{I} = \Delta(mv)$ පද්ධතියට ⟶ $mv + mw - mu = 0$ 5

$$v + w = u$$

නිවුටන් ප්‍රත්‍යාගති නියමය: $v - w = eu$ 10

$$v = \frac{1}{2}(1+e)\,u$$

දෙවැනි ගැටුම සඳහා,

$\underline{I} = \Delta(m\underline{v})$; Q සඳහා, ⟵ $I = mev - (-mv)$ 5

$$= (1+e)\,mv$$

එම නිසා Q මත ආවේගය $= \frac{1}{2}(1+e)^2 mu$ 5

25

උසස් පෙළ විද්‍යා/ගණිත/කලා/වාණිජ හා තාක්ෂණ විෂය ධාරාවන්ට අදාල සියලුම ප්‍රශ්න පත්‍ර/සටහන් හා තවත් බොහෝ දෑ ලබා ගැනීමට පිවිසෙන්න www.alevelapi.com වෙත.

4. ස්වාභාවික දිග a හා ප්‍රත්‍යාස්ථතා මාපාංකය $4mg$ වූ සැහැල්ලු ප්‍රත්‍යාස්ථ තන්තුවක එක කෙළවරක් අචල O ලක්ෂ්‍යයකට ගැට ගසා ඇති අතර අනෙක් කෙළවර ස්කන්ධය m වූ අංශුවකට සම්බන්ධ කර ඇත. O හි නිශ්චලතාවයේ සිට අංශුව ගුරුත්වය යටතේ මුදා හරිනු ලැබේ. ශක්ති සංස්ථිති මූලධර්මය යෙදීමෙන්, පසුව සිදු වන චලිතයේ දී තන්ත්‍රුවේ උපරිම දිග සොයන්න.

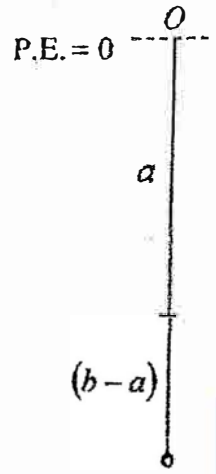

O සහ පහත්ම ලක්ෂ්‍යය යන දෙකේදීම වාලක ශක්තිය ශූන්‍ය වන බැවින්,

ශක්ති සංස්ථිති සම්කරණයෙන්:

$$0+\frac{1}{2}\frac{4mg}{a}(b-a)^2-mgb=0$$ (15)

{ වා. ශ (5), චි.ශ. (5), සම්කරණය (5) }

$$2(b-a)^2=ab$$

$$2b^2+2a^2-5ab=0$$ (5)

$$(b-2a)(2b-a)=0 \quad \Rightarrow b=2a \quad (\because b>a)$$ (5)

25

---

5. සුපුරුදු අංකනයෙන්, $\mathbf{i}+2\mathbf{j}$ හා $3\mathbf{i}+3\mathbf{j}$ යනු O අචල මූලයකට අනුබද්ධයෙන් පිළිවෙළින් A හා B ලක්ෂ්‍ය දෙකක පිහිටුම් දෛශික යැයි ගනිමු. C යනු $OABC$ සමාන්තරාස්‍රයක් වන සේ වූ ලක්ෂ්‍යය යැයි ද ගනිමු. $\overrightarrow{OC}=2\mathbf{i}+\mathbf{j}$ බව පෙන්වන්න.

$A\hat{O}C=\theta$ යැයි ගනිමු. $\overrightarrow{OA}\cdot\overrightarrow{OC}$ සැලකීමෙන් $\cos\theta=\frac{4}{5}$ බව පෙන්වන්න.

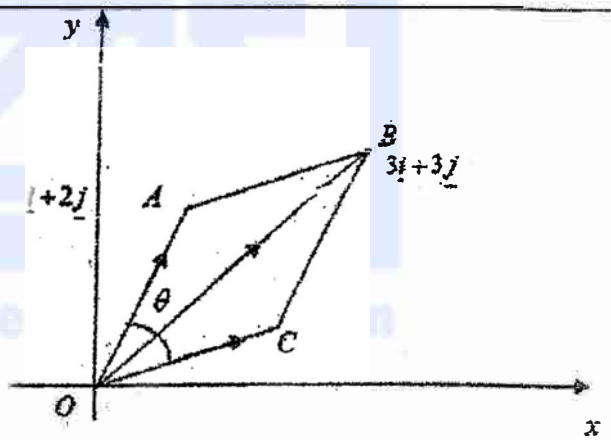

$$\overrightarrow{AB}=\overrightarrow{AO}+\overrightarrow{OB}$$
$$=-(\underline{i}+2\underline{j})+(3\underline{i}+3\underline{j})$$
$$=2\underline{i}+\underline{j}.$$ (5)

$\overrightarrow{OC}=\overrightarrow{AB}$ නිසා $\overrightarrow{OC}=2\underline{i}+\underline{j}$ වේ. (5)

අදිශ ගුණිතය $\overrightarrow{OA}\cdot\overrightarrow{OC}=(\underline{i}+2\underline{j})\cdot(2\underline{i}+\underline{j})=4$ (5)

(5) $\therefore \overrightarrow{OA}\cdot\overrightarrow{OC}=|\overrightarrow{OA}||\overrightarrow{OC}|\cos\theta=4$

$$\therefore \cos\theta=\frac{4}{\sqrt{5}\sqrt{5}}=\frac{4}{5}$$ (5)

25

A/L උසස් පෙළ විද්‍යා/ගණිත/කලා/වාණිජ හා තාක්ෂණ විෂය ධාරාවන්ට අදාල සියලුම ප්‍රශ්න පත්‍ර/සටහන් හා තවත් බොහෝ දෑ ලබා ගැනීමට පිවිසෙන්න www.alevelapi.com වෙත.

6. බර W වූ ඒකාකාර සන ගෝලයක් රූපයේ දැක්වෙන පරිදි තිරසට α කෝණයකින් ආනත වූ රළු තලයක් මත නිශ්චලව ඇත්තේ, ගෝලයේ උච්චතම ලක්ෂ්‍යය වූ A ට හා ආනත තලයේ B ලක්ෂ්‍යයකට සම්බන්ධ කරනු ලැබූ සැහැල්ලු අවිතන්‍ය තන්තුවක ආධාරයෙනි. AB තන්තුව තිරස් ව පවතින විට ගෝලය සීමාකාරී සමතුලිතතාවේ තිබේ. සර්ෂණ කෝණය $\frac{\alpha}{2}$ බව පෙන්වා, තන්තුවේ ආත්තිය සොයන්න.

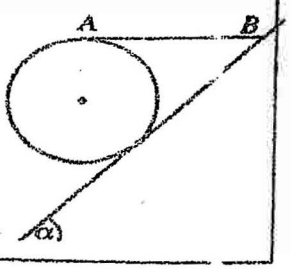

සර්ෂණ කෝණය $= O\hat{C}A$, (5)

හා $O\hat{C}A = \frac{\alpha}{2}$ (5)

A හි ඒක ලක්ෂ්‍යය බල සඳහා ලාමී ප්‍රමේයය යෙදීමෙන්.

$$\frac{T}{\sin\left(\pi-\frac{\alpha}{2}\right)} = \frac{W}{\sin\left(\frac{\pi}{2}+\frac{\alpha}{2}\right)}$$ (5)

$$T = W\tan\frac{\alpha}{2}$$ (5)

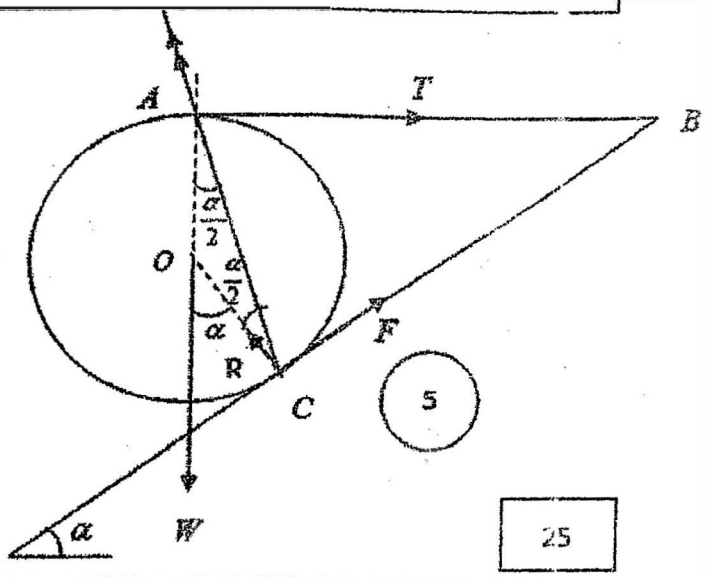

25

වෙනත් ක්‍රමයක්

C $W a\sin\alpha = T(a+a\cos\alpha)$ (5)

$$T = \frac{W\sin\alpha}{1+\cos\alpha} = W\tan\frac{\alpha}{2}$$ (5)

10

---

7. A හා B යනු Ω නියැදි අවකාශයක සිද්ධි දෙකක් යැයි ගනිමු. සුපුරුදු අංකනයෙන් $P((A\cup B)\cap(A'\cup B')) = P(A)+P(B)-2P(A\cap B)$ බව පෙන්වන්න.

$$P((A\cup B)\cap(A'\cup B')) = P\left((A\cup B)\cap(A\cap B)'\right) = P(A\cup B)-P((A\cup B)\cap(A\cap B))$$ (10)

(5) (5)

$$[\because P(X\cap Y') = P(X)-P(X\cap Y)]$$

$$= P(A\cup B)-P(A\cap B) = P(A)+P(B)-P(A\cap B)-P(A\cap B)$$

$$= P(A)+P(B)-2P(A\cap B)$$ (5)

25

වෙනත් ක්‍රමයක් $P((A\cup B)\cap(A'\cup B'))$ (10)

(5) $= P(A\cap B')+P(B\cap A')$ $\because [(A\cup B)\cap A']\cup[(A\cup B)\cap B'] = [A\cap B']\cup[B\cap A']$

$= P(A)-P(A\cap B)+P(B)-P(A\cap B) = P(A)+P(B)-2P(A\cap B)$ (5)

(5)

25

Alevel Api උසස් පෙළ විද්‍යා/ගණිත/කලා/වාණිජ හා තාක්ෂණ විෂය ධාරාවන්ට අදාළ සියලුම ප්‍රශ්න පත්‍ර/සටහන් හා තවත් බොහෝ දෑ ලබා ගැනීමට පිවිසෙන්න www.alevelapi.com වෙත.

8. මල්ලක, ප්‍රමාණයෙන් සමාන වූ රතු බෝල 6 ක් ද සුදු බෝල 4 ක් ද අඩංගු වේ. බෝල තුනක්, වරකට එක බැගින්, ප්‍රතිස්ථාපනයකින් තොරව, සසම්භාවී ලෙස මල්ලෙන් ඉවතට ගනු ලැබේ. දෙවැනි බෝලය සුදු එකක් බව දී ඇති විට, තුන්වැනි බෝලය රතු එකක් වීමේ සම්භාවිතාව සොයන්න.

R: රතු., W: සුදු

$$P(3\text{වෙනි}, R \mid 2\text{වෙනි}, W) = \frac{P(RWR) + P(WWR)}{P(2\text{වෙනි}, W)}$$ (5) (5) (5)

$$= \left(\frac{6}{10}\times\frac{4}{9}\times\frac{5}{8} + \frac{4}{10}\times\frac{3}{9}\times\frac{6}{8}\right) \Big/ \left(\frac{6}{10}\times\frac{4}{9} + \frac{4}{10}\times\frac{3}{9}\right)$$ (5)

$$= \frac{2}{3}$$ (5)

25

වෙනත් ක්‍රමයක්

R: රතු, W: සුදු

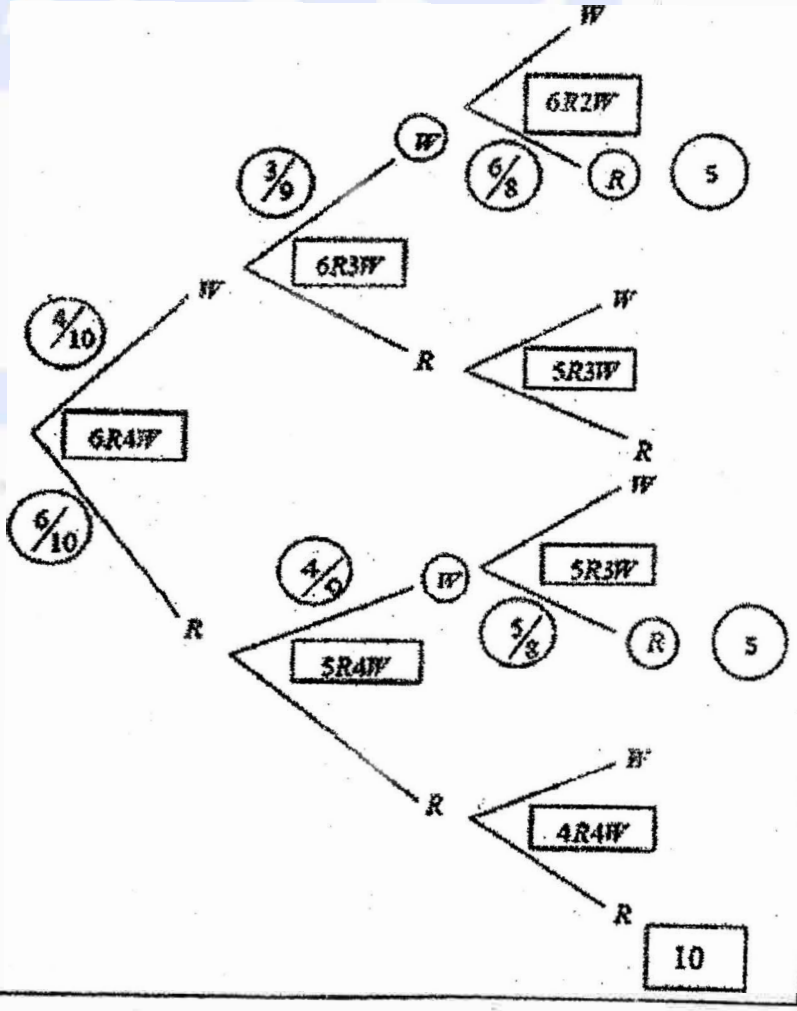

10

A/L උසස් පෙළ විද්‍යා/ගණිත/කලා/වාණිජ හා තාක්ෂණ විෂය ධාරාවන්ට අදාල සියලුම ප්‍රශ්න පත්‍ර/සටහන් හා තවත් බොහෝ දෑ ලබා ගැනීමට පිවිසෙන්න www.alevelapi.com වෙත.

9. නිරීක්ෂණ පහක මධ්‍යනාය්‍යය හා මධ්‍යස්ථය පිළිවෙළින් 7 හා 9 වේ. නිරීක්ෂණවල එක ම මාත්‍රය 11 වේ. නිරීක්ෂණ සියල්ල ධන නිඛිල වේ යැයි උපකල්පනය කරමින්, වැඩිතම නිරීක්ෂණය හා අඩුතම නිරීක්ෂණය සොයන්න.

නිරීක්ෂණ: $x, y, 9, 11, 11$ (10)

$$\frac{x+y+31}{5}=7 \quad (5)$$

$$\Rightarrow x+y=4$$

x හා y ධන නිඛිල නිසා, $(x=1,\ y=3)$, $(x=2,\ y=2)$ හෝ $(x=3,\ y=1)$.

දැන්, එකම මාත්‍රය 11 වන බැවින් නිරීක්ෂණ වන්නේ 1, 3, 9, 11, 11. (5)

විශාලතම නිරීක්ෂණය $= 11$

අඩුතම නිරීක්ෂණය $= 1$ (5)

25

---

10. පහත දැක්වෙන නිරීක්ෂණ 100 ක සංඛ්‍යාත ව්‍යාප්තියේ මධ්‍යනාය්‍යය 31.8 වේ.

5 - 15	15 - 25	25 - 35	35 - 45	45 - 55
16	x	30	y	20

x හා y හි අගයන් සොයා, ව්‍යාප්තියේ මධ්‍යස්ථය නිමානය කරන්න.

නිරීක්ෂණ 100 හි මුළු අගය $= 10\times16+20x+30\times30+40y+50\times20=31.8\times100$ (5)

$$2x+4y=318-206=112$$

$$x+2y=56 \ldots\ldots\ldots\ldots\ldots\ldots(i)$$

$$66+x+y=100 \quad (5)$$

$$x+y=34 \ldots\ldots\ldots\ldots\ldots\ldots(ii)$$

$\therefore x=12$ සහ $y=22$ (5)

$$\text{මධ්‍යස්ථය}=25+\frac{50-28}{30}\times10 \quad (5)$$

$$=25+\frac{22}{3}$$

$$=\frac{97}{3}$$

$$\approx 32.33 \quad (5)$$

25

Alevel Api උසස් පෙළ විද්‍යා/ගණිත/කලා/වාණිජ හා තාක්ෂණ විෂය ධාරාවන්ට අදාල සියලුම ප්‍රශ්න පත්‍ර/සටහන් හා තවත් බොහෝ දෑ ලබා ගැනීමට පිවිසෙන්න www.alevelapi.com වෙත.

11. (a) තිරසට $\alpha\left(0<\alpha<\frac{\pi}{2}\right)$ කෝණයකින් ආනත අවල සුමට තලයක වූ O ලක්ෂ්‍යයක P හා Q අංශු දෙකක් තබා ඇත. O හරහා වූ උපරිම බැවුම් රේඛාව දිගේ උඩු අතට P අංශුවට u ප්‍රවේගයක් දෙනු ලබන අතර, එම මොහොතේ ම, Q අංශුව නිශ්චලතාවයේ සිට මුදා හරිනු ලැබේ. අංශු දෙක ආනත තලය හැර නොයන බව උපකල්පනය කරමින්, P හා Q හි චලිත සඳහා ප්‍රවේග-කාල ප්‍රස්තාරවල දළ සටහන් එක ම රූපයක අඳින්න.

මෙම ප්‍රස්තාර භාවිතයෙන්, P අංශුව O ලක්ෂ්‍යයට නැවත පැමිණෙන මොහොතේ දී Q අංශුව O සිට $\frac{2u^2}{g\sin\alpha}$ දුරකින් පිහිටන බව පෙන්වන්න.

(b) සැහු සමාන්තර ඉවුරු සහිත ගඟක u ඒකාකාර ප්‍රවේගයකින් ගලා බසී. A හා B ලක්ෂ්‍ය දෙක එකක් එක් ඉවුරක ද අනෙක අනෙක් ඉවුරේ ද පිහිටා ඇත්තේ $\overrightarrow{AB}$ යන්න u සමඟ α සුළු කෝණයක් සාදන පරිදි ය. පිටිමී ළමයෙක් A වලින් ආරම්භ කර, ජලයට සාපේක්ෂ ව අවල දිශාවකට විශාලත්වය $2u$ වූ නියත ප්‍රවේගයකින් පිහිනමින්, B වෙත ළඟා වෙයි; මෙහි $u=|\mathbf{u}|$ වේ. ඔහු ඉන්පසු, B වලින් ආරම්භ කර A වෙත ආපසු පැමිණෙන පරිදි ජලයට සාපේක්ෂ ව අවල දිශාවකට එම $2u$ විශාලත්වය ම සහිත ප්‍රවේගයකින් පිහිනයි. A සිට B දක්වා චලිතය සඳහා ද B සිට A දක්වා චලිතය සඳහා ද ප්‍රවේග ත්‍රිකෝණවල දළ සටහන් එක ම රූපයක අඳින්න.

ඒ අනුසිට, A සිට B දක්වා චලිතය සඳහා ද B සිට A දක්වා චලිතය සඳහා ද ජලයට සාපේක්ෂ ව ඔහුගේ ප්‍රවේගය පිළිවෙළින් $\overrightarrow{AB}$ හා $\overrightarrow{BA}$ සමඟ එක ම θ කෝණයක් සාදිය යුතු බව පෙන්වන්න; මෙහි $\sin\theta=\frac{1}{2}\sin\alpha$ වේ.

B සිට A දක්වා පිහිනීමට ගත් කාලය, A සිට B දක්වා පිහිනීමට ගත් කාලය මෙන් $k\,(1<k<3)$ ගුණයක් නම්, $\cos\theta=\frac{1}{2}\left(\frac{k+1}{k-1}\right)\cos\alpha$ බව පෙන්වන්න.

$\sin\theta$ හා $\cos\theta$ සඳහා වූ ඉහත ප්‍රකාශන භාවිතයෙන් $\cos\alpha=\frac{(k-1)}{\ldots}\sqrt{\frac{3}{k}}$ බව ද පෙන්වන්න.

(a)

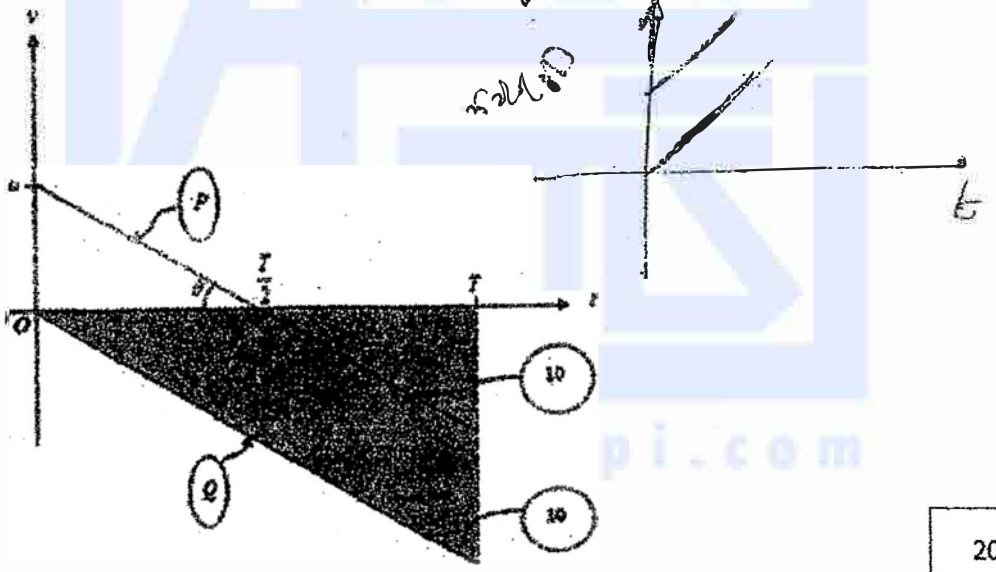

20

$\tan\theta=g\sin\alpha=\frac{u}{T/2}$ (10)

$\therefore T=\frac{2u}{g\sin\alpha}$ (5)

P අංශුව ආපසු O වෙත පැමිණෙන විට Q හි O සිට දුර = අඳුරු කළ ත්‍රිකෝණයේ වර්ගඵලය

$=\frac{1}{2}\times T\times 2u=\frac{2u^2}{g\sin\alpha}$ (10) (5)

30

A/L ඉසස් පෙළ විද්‍යා/ගණිත/කලා/වාණිජ හා තාක්ෂණ විෂය ධාරාවන්ට අදාළ සියලුම ප්‍රශ්න පත්‍ර/සටහන් හා තවත් බොහෝ දෑ ලබා ගැනීමට පිවිසෙන්න www.alevelapi.com වෙත.

(b)

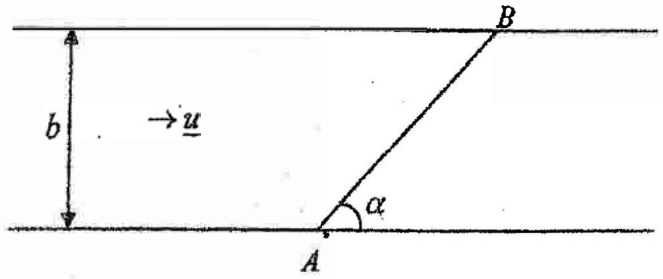

$\underline{V}(Boy,E) = \underline{V}(Boy,W) + \underline{V}(W,E)$ (5)

$= \underline{V}(W,E) + \underline{V}(Boy,W)$

$= \overrightarrow{PQ} + \overrightarrow{QR_i}$ (5)

$= \overrightarrow{PR_i}$ $i=1$ ↗ (A සිට B දක්වා වලිතය සඳහා)

(5) $i=2$ ↙ (B සිට A දක්වා වලිතය සඳහා)

ප්‍රවේග ත්‍රිකෝණ

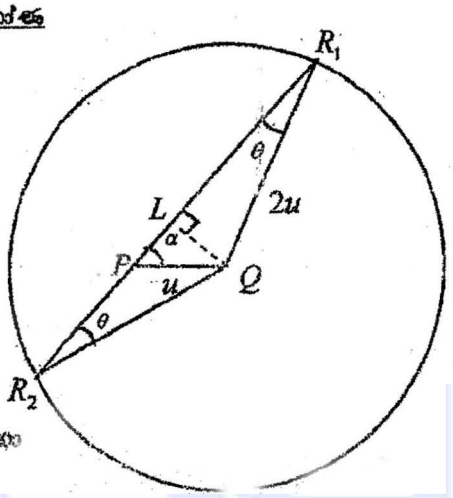

$R_2R_1 \,//\, AB$

(15)

A සිට B දක්වා වලිතය සඳහා

(15)

B සිට A දක්වා වලිතය සඳහා

45

$QL = 2u\sin\theta = u\sin\alpha$

(5) (5)

$\Rightarrow \sin\theta = \frac{1}{2}\sin\alpha$

10

$PR_1 = 2u\cos\theta + u\cos\alpha$ (5) $\quad PR_2 = 2u\cos\theta - u\cos\alpha$ (5)

$T_1 = \frac{AB}{2u\cos\theta + u\cos\alpha}$ (5) $\quad T_2 = \frac{AB}{2u\cos\theta - u\cos\alpha}$ (5)

$T_2 = kT_1 \Rightarrow 2u\cos\theta + u\cos\alpha = k(2u\cos\theta - u\cos\alpha)$ (5)

$2(k-1)\cos\theta = (k+1)\cos\alpha$ (5)

$\therefore \cos\theta = \frac{1}{2}\left(\frac{k+1}{k-1}\right)\cos\alpha$

30

උසස් පෙළ විද්‍යා/ගණිත/කලා/වාණිජ හා තාක්ෂණ විෂය ධාරාවන්ට අදාල සියලුම ප්‍රශ්න පත්‍ර/සටහන් හා තවත් බොහෝ දේ ලබා ගැනීමට පිවිසෙන්න www.alevelapi.com වෙත.

$$\frac{1}{4}\sin^2\alpha+\frac{1}{4}\left(\frac{k+1}{k-1}\right)^2\cos^2\alpha=1 \quad [\because \sin^2\theta+\cos^2\theta=1] \quad (5)$$

$$\left[\left(\frac{k+1}{k-1}\right)^2-1\right]\cos^2\alpha=3 \quad (5)$$

$$\Rightarrow \cos^2\alpha=\frac{3(k-1)^2}{4k} \qquad \therefore \cos\alpha=\frac{k-1}{2}\sqrt{\frac{3}{k}} \quad (5)$$

15

---

12. (a) දී ඇති රූප සටහනෙහි ABC ත්‍රිකෝණය, ස්කන්ධය M වූ ඒකාකාර සුමට කුඤ්ඤයක ගුරුත්ව කේන්ද්‍රය හරහා යන සිරස් හරස්කඩක් නිරූපණය කරයි. AB රේඛාව එය අයත් මුහුණතෙහි උපරිම බැවුම් රේඛාවක් වන අතර $A\hat{B}C=\alpha$, $A\hat{C}B=\frac{\pi}{2}$ හා $BC=a$ වේ. සුමට තිරස් ගෙවීමක් මත BC අයත් මුහුණත ඇතිව කුඤ්ඤය තබා ඇත. ස්කන්ධය m වූ අංශුවක් AB රේඛාව මත A ලක්ෂ්‍යයෙහි සිරුවෙන් තබා නිශ්චලතාවයේ සිට මුදා හරිනු ලැබේ. අංශුව කුඤ්ඤය හැර යන තෙක්, කුඤ්ඤයේ ත්වරණය $\frac{mg\sin\alpha\cos\alpha}{M+m\sin^2\alpha}$ බව පෙන්වා, කුඤ්ඤයට සාපේක්ෂ ව අංශුවේ ත්වරණය සොයන්න.

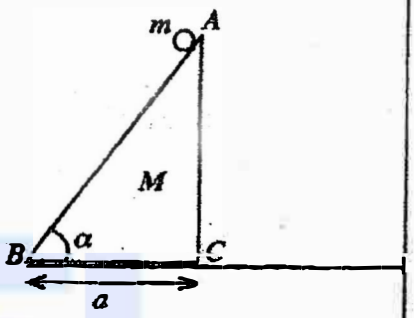

දැන්, $\alpha=\frac{\pi}{4}$ හා $M=\frac{5m}{2}$ යැයි සිතමු. අංශුව කුඤ්ඤය හැර යන මොහොතේ දී කුඤ්ඤයේ වේගය $\sqrt{\frac{2ag}{21}}$ බව පෙන්වන්න.

(b) අරය a සහ කේන්ද්‍රය O වූ සිහින් සුමට වෘත්තාකාර නළයක් සිරස් තලයක සවිකර ඇත. දිග $\frac{3\pi a}{2}$ ට වඩා වැඩි සැහැල්ලු අවිතන්‍ය තන්තුවක එක් කෙළවරක්, OP තිරස් ව ඇතිව නළය තුළ අල්වා තැබූ, ස්කන්ධය m වන P අංශුවකට ඇදා ඇත. රූපයේ පෙන්වා ඇති පරිදි තන්තුව නාළය තුළින් ද නළයේ පහළ ම ලක්ෂ්‍යයේ ඇති කුඩා සුමට සිදුරක් තුළින් ද යමින් අනෙක් කෙළවරෙහි ස්කන්ධය $2m$ වූ Q අංශුවක් දරා සිටියි. තන්තුව තදව ඇතිව ඉහත පිහිටීමෙන් P අංශුව නිශ්චලතාවයේ සිට මුදා හරිනු ලැබේ. ශක්ති සංස්ථිති මූලධර්මය යෙදීමෙන් $\theta\left(0<\theta<\frac{3\pi}{2}\right)$ කෝණයකින් OP හැරී ඇති විට P අංශුවේ වේගය v යන්න $v^2=\frac{2ga}{3}(2\theta-\sin\theta)$ මඟින් දෙනු ලබන බව පෙන්වා, P අංශුව මත නළයෙන් ඇති කරන ප්‍රතික්‍රියාව සොයන්න.

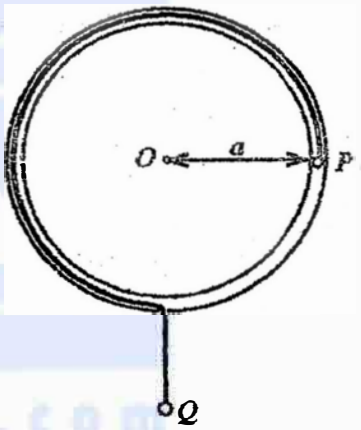

(a)

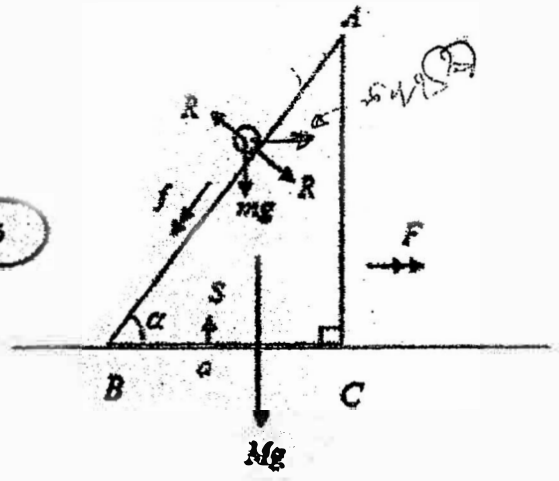

බල සඳහා (5)

Alevel Lapi උසස් පෙළ විද්‍යා/ගණිත/කලා/වාණිජ හා තාක්ෂණ විෂය ධාරාවන්ට අදාල සියලුම ප්‍රශ්න පත්‍ර/සටහන් හා තවත් බොහෝ දෑ ලබා ගැනීමට පිවිසෙන්න www.alevelapi.com වෙත.

$\underline{a}(M,E) = \rightarrow F$ and $\underline{a}(m,M) = f$ යයි ගනිමු. (5)

එවිට $\underline{a}(m,E) =$ 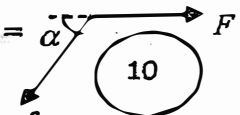 (10)

$\underline{F} = m\underline{a}$: යොදමු.

පද්ධතිය සඳහා $\longrightarrow$ $0 = MF + m(F - f\cos\alpha)$ --------- (i) (15)

m සඳහා $\swarrow$ $mg\sin\alpha = m(f - F\cos\alpha)$ ---------- (ii) (15)

$$(i) \Rightarrow f = \frac{(m+M)F}{m\cos\alpha}$$

$$(ii) \Rightarrow g\sin\alpha = \frac{(m+M)F}{m\cos\alpha} - F\cos\alpha$$

$$mg\sin\alpha\cos\alpha = (M + m - m\cos^2\alpha)F$$

$$\therefore F = \frac{mg\sin\alpha\cos\alpha}{M + m\sin^2\alpha} \quad (10)$$

$$f = \frac{(M+m)\ mg\cos\alpha\sin\alpha}{m\cos\alpha\ (M + m\sin^2\alpha)}$$

$$= \frac{(M+m)g\sin\alpha}{M + m\sin^2\alpha} \quad (10)$$

70

$\alpha = \frac{\pi}{4}$ හා $M = \frac{5m}{2}$ යෙදූ විට $F = \frac{g}{6}$ හා $f = \frac{7g}{6\sqrt{2}}$. (5)

M සාපේක්ෂව m හි චලිතය සඳහා $\swarrow$ $s = ut + \frac{1}{2}at^2$ යොදමු.

$$\sqrt{2}a = \frac{1}{2}.\frac{7g}{6\sqrt{2}} \times T^2 \quad (5)$$

$$T = \sqrt{\frac{24a}{7g}} \quad (5)$$

E සාපේක්ෂව M හි චලිතය සඳහා $\rightarrow$ $v = u + at$ යොදමු.

$$v = \frac{g}{6}\sqrt{\frac{24a}{7g}} = \sqrt{\frac{2ga}{21}} \quad (5)$$

20

Alevel Lapi උසස් පෙළ විද්‍යා/ගණිත/කලා/වාණිජ හා තාක්ෂණ විෂය ධාරාවන්ට අදාල සියලුම ප්‍රශ්න පත්‍ර/සටහන් හා තවත් බොහෝ දෑ ලබා ගැනීමට පිවිසෙන්න www.alevelapi.com වෙත.

12.(*b*)

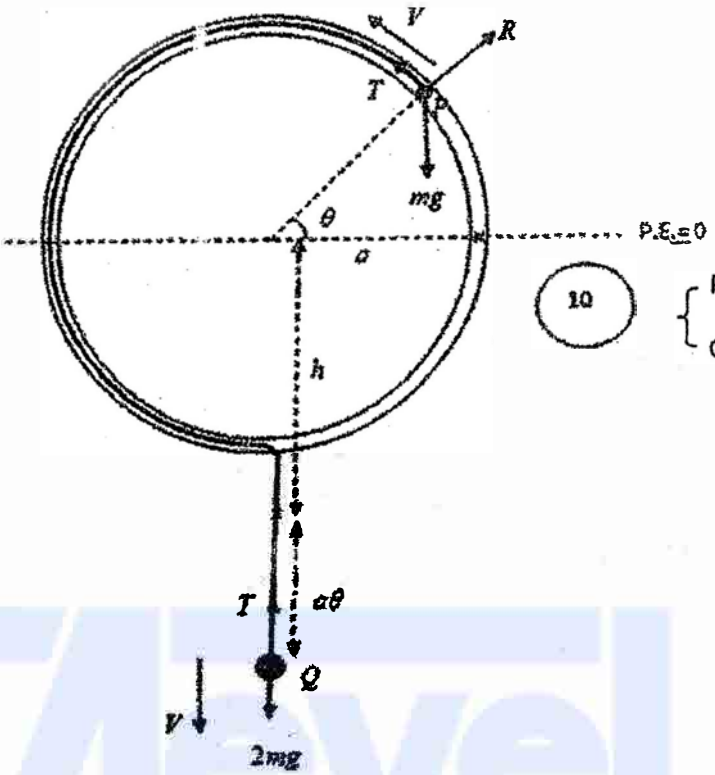

10 { Pහි බල 5 / Qහි බල 5

ශක්ති සංස්ථිතී මූලධර්මය මගින්,

$$\frac{1}{2}mV^2+\frac{1}{2}(2m)V^2+mga\sin\theta-2mg(a\theta+h)=-2mgh$$ 25

(වා.ශ- 10 වි.ශ.- 10 / සමීකරණ 5)

$$\frac{3}{2}V^2=2ag\theta-ga\sin\theta$$

$$V^2=\frac{2}{3}ga(2\theta-\sin\theta)$$ 5

40

P, අංශුව සඳහා $\underline{F}=m\underline{a}$ $\Rightarrow$

$$mg\sin\theta-R=\frac{mV^2}{a}$$ 10

$$R=mg\sin\theta-\frac{2mg}{3}(2\theta-\sin\theta)$$ 5

$$=\frac{mg}{3}[3\sin\theta-4\theta+2\sin\theta]$$

$$=\frac{mg}{3}[5\sin\theta-4\theta]$$ 5

20

උසස් පෙළ විද්‍යා/ගණිත/කලා/වාණිජ හා තාක්ෂණ විෂය ධාරාවන්ට අදාල සියලුම ප්‍රශ්න පත්‍ර/සටහන් හා තවත් බොහෝ දෑ ලබා ගැනීමට පිවිසෙන්න www.alevelapi.com වෙත .

13. ස්වාභාවික දිග $4a$ හා ප්‍රත්‍යාස්ථතා මාපාංකය $8mg$ වූ සිහින් සැහැල්ලු ප්‍රත්‍යාස්ථ දුන්නක්, එහි එහළ කෙළවර O අචල වන සේ සිරස් ව සිටුවා ඇත. ස්කන්ධය m වූ P අංශුවක් එහි ඉහළ කෙළවරට ඇදා සිටේ. P අංශුව O ට සිරස් ව ඉහළින් වූ A ලක්ෂ්‍යයක සමතුලිත ව ඇත. $OA = \frac{7a}{2}$ බව පෙන්වන්න.

දැන්, එම m ස්කන්ධය ම සහිත තවත් Q අංශුවක් P ට සිරුවෙන් ඇඳුනු ලබා අතර සංයුක්ත අංශුව A හි නිශ්චලතාවයේ සිට චලිතය ආරම්භ කරයි. සංයුක්ත අංශුවේ චලිත සමීකරණය $\ddot{x} = -\frac{g}{a}x$ බව පෙන්වන්න; මෙහි x යනු $OB = 3a$ වන සේ O ට සිරස්ව ඉහළින් පිහිටි B ලක්ෂ්‍යයේ සිට සංයුක්ත අංශුවේ විස්ථාපනය වේ.

සංයුක්ත අංශුව ළඟා වන පහළ ම ලක්ෂ්‍යය C යැයි ගනිමු. OC දිග ද A සිට C දක්වා චලනය වීමට සංයුක්ත අංශුව ගන්නා කාලය ද සොයන්න.

සංයුක්ත අංශුව C හි ඇති මොහොතේ දී Q අංශුව සිරුවෙන් ඉවත් කරනු ලැබේ. පසුව සිදුවන P අංශුවේ චලිතය සඳහා චලිත සමීකරණය $\ddot{y} = -\frac{2g}{a}y$ බව පෙන්වන්න; මෙහි y යනු A ලක්ෂ්‍යයේ සිට P අංශුවේ විස්ථාපනය වේ.

මෙම සමීකරණයට $y = \alpha\cos\omega t + \beta\sin\omega t$ ආකාරයේ විසඳුමක් උපකල්පනය කරමින් α, β හා ω නියතවල අගයන් සොයන්න.

ඒ නයින්, C සිට D දක්වා චලනය වීමට P අංශුව ගන්නා කාලය $\frac{\pi}{3}\sqrt{\frac{2a}{g}}$ බව පෙන්වන්න; මෙහි D යනු $OD = 4a$ වන පරිදි O ට සිරස් ව ඉහළින් පිහිටි ලක්ෂ්‍යය වේ. D වෙත ළඟා වන විට P අංශුවේ වේගය ද සොයන්න.

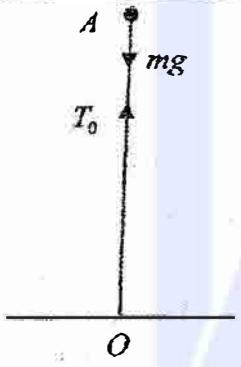

සමතුලිතතාව සඳහා $\uparrow$ $T_0 = mg$ (5)

(5) කවද $T_0 = \frac{8mg}{4a}(4a - OA)$

$\therefore \frac{8mg}{4a}(4a - OA) = mg$

(5) $8a - 2(OA) = a \Rightarrow OA = \frac{7a}{2}$

15

සංයුක්ත අංශුවේ චලිතය සඳහා

(5) $\uparrow$ $F = ma$

$T - 2mg = 2m\ddot{x}$ (10)

$\frac{8mg}{4a}(a - x) - 2mg = 2m\ddot{x}$

$\Rightarrow \ddot{x} = -\frac{g}{a}x$ (5)

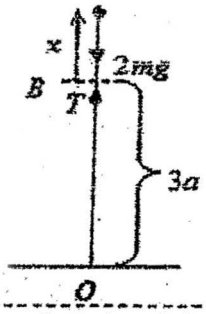

20

මෙම සරල අනුවර්තීය චලිතයේ කේන්ද්‍රය B වේ. මෙහි $OB = 3a$. (5)

$\therefore$ විස්තාරය $= AB = \frac{a}{2}$ හා කාලවර්තය $= \frac{2\pi}{\sqrt{\frac{g}{a}}}$ (5)

එවිට $BC = \frac{a}{2}$ (5) $OC = OB - BC = 3a - \frac{a}{2} = \frac{5a}{2}$ (5)

A සිට C දක්වා කාලය $= \frac{1}{2} \times$ කාලවර්තය $= \pi\sqrt{\frac{a}{g}}$ (5)

(5)

30

Alevel Lapi උසස් පෙළ විද්‍යා/ගණිත/කලා/වාණිජ හා තාක්ෂණ විෂය ධාරාවන්ට අදාල සියලුම ප්‍රශ්න පත්‍ර/සටහන් හා තවත් බොහෝ දෑ ලබා ගැනීමට පිවිසෙන්න www.alevelapi.com වෙත.

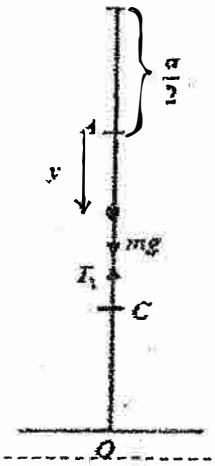

P අංශුව සඳහා, $\downarrow \quad \underline{F} = m\underline{a}$

$-T_1 + mg = m\ddot{y}$ (10)

(5) $-\frac{8mg}{4a}\left(y + \frac{a}{2}\right) + mg = m\ddot{y}$

සුළු කිරීම - (5)

$\ddot{y} = -\frac{2g}{a}y$ ..... (i)

20

$y = \alpha\cos\omega t + \beta\sin\omega t$ ..... (ii)

$\dot{y} = -\alpha\omega\sin\omega t + \beta\omega\cos\omega t$ ..... (iii) (5)

$\ddot{y} = -\omega^2(\alpha\cos\omega t + \beta\sin\omega t)$ (5)

$= -\omega^2 y$ (5)

(i) සමඟ සැසඳීමෙන්, $\omega = \sqrt{\frac{2g}{a}}$ ලැබේ. (5)

C හිදී P ට අදාළව $t = 0$ යැයි ගනිමු .

(5) $\because t = 0$ විට $y = a$, (ii) $\Rightarrow a = \alpha$ (5)

(5) $\because t = 0$ විට $\dot{y} = 0$, (iii) $\Rightarrow \beta = 0$ (5)

$\therefore y = a\cos\omega t$

40

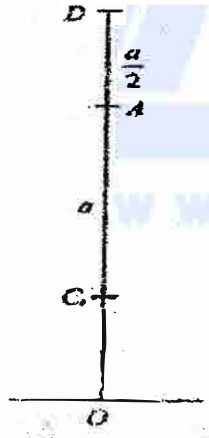

C සිට D දක්වා ගතවන කාලය t_1 යැයි ගනිමු .

$\because t = t_1$ විට $y = -\frac{a}{2}$, $-\frac{a}{2} = a\cos\omega t_1$ ලැබේ. (5)

$\omega t_1 = \frac{2\pi}{3}$ (5)

$t_1 = \frac{2\pi}{3}\cdot\sqrt{\frac{a}{2g}} = \frac{\pi}{3}\sqrt{\frac{2a}{g}}$ (5)

15

$t = t_1$ විට (D ලක්ෂ්‍යයෙහි දී) : $\dot{y} = -a\omega\sin\omega t_1 = -a\sqrt{\frac{2g}{a}}\cdot\frac{\sqrt{3}}{2} = -\sqrt{\frac{3ga}{2}}$ (5)

අවශ්‍ය වෙගය $= \sqrt{\frac{3ga}{2}}$ (5)

10

Alevel Lapi උසස් පෙළ විද්‍යා/ගණිත/කලා/වාණිජ හා තාක්ෂණ විෂය ධාරාවන්ට අදාල සියලුම ප්‍රශ්න පත්‍ර/සටහන් හා තවත් බොහෝ දෑ ලබා ගැනීමට පිවිසෙන්න www.alevelapi.com වෙත .

14. (a) $ABCD$ යනු $\overrightarrow{DC} = \frac{1}{2}\overrightarrow{AB}$ වන පරිදි වූ ත්‍රපීසියමක් යැයි ගනිමු. තව ද $\overrightarrow{AB} = \mathbf{p}$ හා $\overrightarrow{AD} = \mathbf{q}$ යැයි ද ගනිමු. $\overrightarrow{BE} = \frac{1}{3}\overrightarrow{BC}$ වන පරිදි BC මත E ලක්ෂ්‍යය පිහිටයි. AE හා BD වල ඡේදන ලක්ෂ්‍යය වන F මගින් $\overrightarrow{BF} = \lambda\overrightarrow{BD}$ යන්න සපුරාලයි; මෙහි $\lambda (0 < \lambda < 1)$ නියතයකි. $\overrightarrow{AE} = \frac{5}{6}\mathbf{p} + \frac{1}{3}\mathbf{q}$ බව හා $\overrightarrow{AF} = (1-\lambda)\mathbf{p} + \lambda\mathbf{q}$ බව පෙන්වන්න.

ඒ නයින්, λ හි අගය සොයන්න.

(b) $ABCD$ යනු පැත්තක දිග මීටර a වූ සමචතුරශ්‍රයක් යැයි ගනිමු. විශාලත්ව නිවිටන $4, 6\sqrt{2}, 8, 10, X$ හා Y වූ බල පිළිවෙළින් AD, CD, AC, BD, AB හා CB දිගේ, අක්ෂර අනුපිළිවෙළින් දැක්වෙන දිශාවලට ක්‍රියා කරයි. පද්ධතිය $\overrightarrow{OE}$ දිගේ ක්‍රියාකරන තනි සම්ප්‍රයුක්තයකට ඌනනය වේ; මෙහි O හා E යනු පිළිවෙළින් AC හා CD වල මධ්‍ය ලක්ෂ්‍ය වේ. X හා Y හි අගයන් සොයා, සම්ප්‍රයුක්තයේ විශාලත්වය නිවිටන $4K$ බව පෙන්වන්න; මෙහි $K = 2-\sqrt{2}$ වේ.

F යනු $OAFD$ සමචතුරශ්‍රයක් වන පරිදි වූ ලක්ෂ්‍යය යැයි ගනිමු. ඉහත බල පද්ධතියට තුල්‍ය වන, එකක් $\overrightarrow{AD}$ දිගේ ද අනෙක F ලක්ෂ්‍යය හරහා ද වන, බල දෙක සොයන්න.

බල පිහිටන තලයේ $ABCD$ අතට ක්‍රියාකරන සූර්ණය නිවිටන මීටර $6Ka$ වන බල යුග්මයක් මුල් පද්ධතියට එකතු කරනු ලැබේ. නව පද්ධතියේ සම්ප්‍රයුක්තයෙහි ක්‍රියා රේඛාව සොයන්න.

(a)

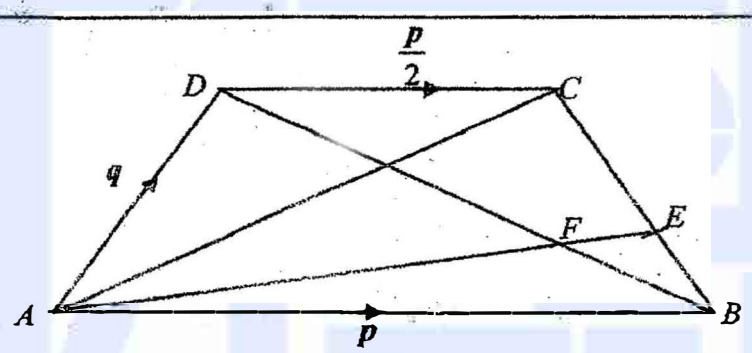

5 5

5 $\overrightarrow{AC} = \overrightarrow{AD} + \overrightarrow{DC} = q + \frac{p}{2}$

$\overrightarrow{BC} = \overrightarrow{BA} + \overrightarrow{AC} = -p + \left(q + \frac{p}{2}\right) = q - \frac{p}{2}$ 5

5

$\therefore \overrightarrow{BE} = \frac{q}{3} - \frac{p}{6}$ 5

$\overrightarrow{AE} = \overrightarrow{AB} + \overrightarrow{BE} = p + \left(\frac{q}{3} - \frac{p}{6}\right) = \frac{5p}{6} + \frac{q}{3}$ 5

5

40

$\overrightarrow{AF} = \overrightarrow{AB} + \overrightarrow{BF}$ 5

$= p + \lambda\overrightarrow{BD}$

$= p + \lambda(q - p) = (1-\lambda)p + \lambda q$ 5

10

උසස් පෙළ විද්‍යා/ගණිත/කලා/වාණිජ හා තාක්ෂණ විෂය ධාරාවන්ට අදාල සියලුම ප්‍රශ්න පත්‍ර/සටහන් හා තවත් බොහෝ දෑ ලබා ගැනීමට පිවිසෙන්න www.alevelapi.com වෙත .

$\overrightarrow{AF} = k\overrightarrow{AE}$ (5)

$(1-\lambda)p + \lambda q = \frac{k}{6}[5p + 2q]$ (5)

(5) $1-\lambda = \frac{5k}{6}$

(5) $\lambda = \frac{2k}{6}$

$\Rightarrow \lambda = \frac{2}{7}$ (5)

25

(b)

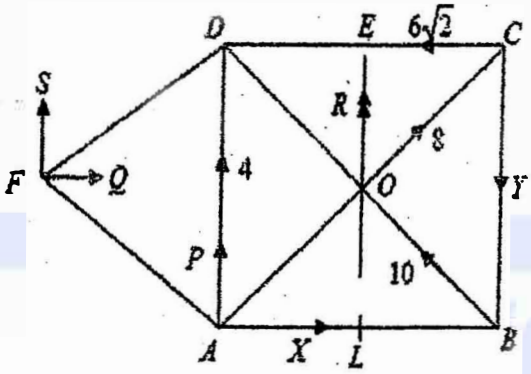

(10)

විභේදනයෙන්, $\rightarrow X - 6\sqrt{2} - \frac{10}{\sqrt{2}} + \frac{8}{\sqrt{2}} = 0$ (5)

$\Rightarrow X = 6\sqrt{2} + 5\sqrt{2} - 4\sqrt{2} \quad = 7\sqrt{2}\ N$ (5)

O වටා ඝූර්ණය ගැනීමෙන් $\Rightarrow X \times \frac{a}{2} - Y \times \frac{a}{2} + 6\sqrt{2} \times \frac{a}{2} - 4 \times \frac{a}{2} = 0$ (10)

$Y = 7\sqrt{2} + 6\sqrt{2} - 4 = 13\sqrt{2} - 4\ N$ (5)

සම්ප්‍රයුක්තය $= 4 - Y + 4\sqrt{2} + 5\sqrt{2}$ (5)

(5)

$= 4 - 13\sqrt{2} + 4 + 9\sqrt{2} \quad = 4\left(2 - \sqrt{2}\right) = 4K\ N$ $\therefore$ මෙහි $K = 2 - \sqrt{2}$ වේ. 45

$\rightarrow Q = 0$ $\uparrow P + S = 4K$ (5)

F $4K \times \sqrt{2}a = P \times \frac{\sqrt{2}a}{2}$ (5)

$\therefore P = 8K\ N$ හා $S = -4K$

(5) (5)

$\therefore$ F හිදී බලය $= 4K\ N\downarrow$ හා $\overrightarrow{AD}$ දිගේ බලය $= 8K\ N\uparrow$. 20

Alevel Lapi උසස් පෙළ විද්‍යා/ගණිත/කලා/වාණිජ හා තාක්ෂණ විෂය ධාරාවන්ට අදාල සියලුම ප්‍රශ්න පත්‍ර/සටහන් හා තවත් බොහෝ දෑ ලබා ගැනීමට පිවිසෙන්න www.alevelapi.com වෙත.

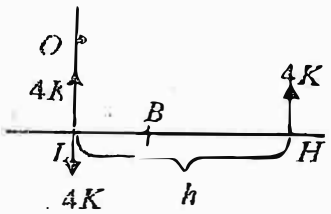

O $4Kh = 6Ka$

$h = \frac{3a}{2}\ m$ (5)

නව පද්ධතියේ සම්ප්‍රයුක්තයෙහි ක්‍රියා රේඛාව: දික්කල AB රේඛාව මත $BH = a$ වන පරිදිවූ H ඔස්සේ BC ට සමාන්තරව යි.

10

15.(a) ඒකක දිගයා සිර w බැගින් වූ ද $AB = AD = l\sqrt{3}$ හා $BC = DC = l$ වූ ද AB, BC, CD හා DA ඒකාකාර දඬු භාවිත $ABCD$ රඹු සැකිල්ලක් සාදන ලදී. එවායේ අගුළුවලින් සුමට ලෙස සන්ධි කර ඇත. දිග $2l$ වූ සැහැල්ලු අවිතනා තන්තුවකින් A හා C සන්ධි සම්බන්ධ කර ඇත. රඹු සැකිල්ල A සන්ධියෙන් සවිකළහැකි සිරස් බිත්තියක සවිකරනු ලබයි. තන්තුවෙහි ආතතිය $\frac{wl}{4}(3+\sqrt{3})$ බව පෙන්වන්න.

(b)

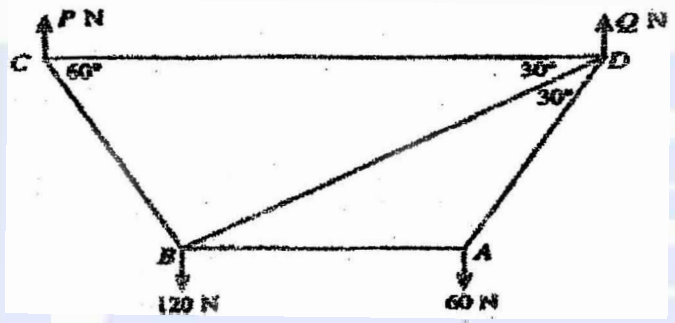

අත්තවලදී සුමට ලෙස සන්ධි කරන ලද AB, AD, BC, BD හා CD සැහැල්ලු දඬු පහෙන් රඹු සැකිල්ලක් දී ඇති රූපයෙන් සිරුපෙනේ වේ. A හා B යි දී සිදුවලින් 60 N හා 120 N බර දරන අතර AB හා CD දඬු සිරස් වී ඇතිව රඹු සැකිල්ල සමතුලිතතාවයේ තබා ඇත්තේ සිදුවලින් C හා D යි දී හෙළූ P N හා Q N සිරස් බල තඳහාය. මෙහි අංකනය වෙනස්වීමෙන්, ප්‍රකාශනවල වටිනාකම් අඩුවෙතැ.

ඒ සඳහා, උඩ පෙළේ ම පහතාබල. එවා ආතති හෝ තෙරපුම් විශයෙන් ප්‍රකාශ කරමින්, පෙන්වන්න.

(a)

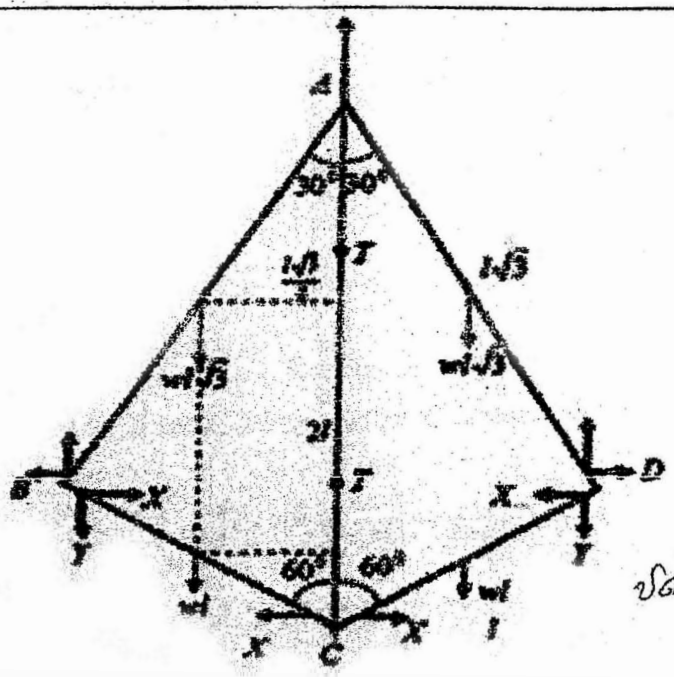

සමමිතිය 5

දිශාව 5

16

Alevel Lapi උසස් පෙළ විද්‍යා/ගණිත/කලා/වාණිජ හා තාක්ෂණ විෂය ධාරාවන්ට අදාල සියලුම ප්‍රශ්න පත්‍ර/සටහන් හා තවත් බොහෝ දෑ ලබා ගැනීමට පිවිසෙන්න www.alevelapi.com වෙත.

10

AB හා BC සඳහා A ↻ $\quad wl(1+\sqrt{3})\times\frac{l\sqrt{3}}{4} - X\times 2l = 0 \Rightarrow X = \frac{(1+\sqrt{3})\sqrt{3}}{8}wl$ 5

CD සඳහා C ↺ $\quad X\times\frac{l}{2} - Y\times\frac{l\sqrt{3}}{2} - wl\times\frac{l\sqrt{3}}{4} = 0$ 10

$$Y = \frac{1}{2\sqrt{3}}\left[2X - wl\sqrt{3}\right] = \frac{wl}{2\sqrt{3}}\left[\frac{3+\sqrt{3}}{4} - \sqrt{3}\right]$$ 5

$$= \frac{wl}{8\sqrt{3}}\left(3-3\sqrt{3}\right) = \frac{wl}{8}\left(\sqrt{3}-3\right)$$

BC හා CD සඳහා ↑ $\quad T - 2wl - 2Y = 0$ 10

5 $\quad T = 2wl + \frac{wl}{4}\left(\sqrt{3}-3\right) = \frac{wl}{4}\left[8+\sqrt{3}-3\right] = \frac{wl}{4}\left(5+\sqrt{3}\right)$ 5

60

(b).

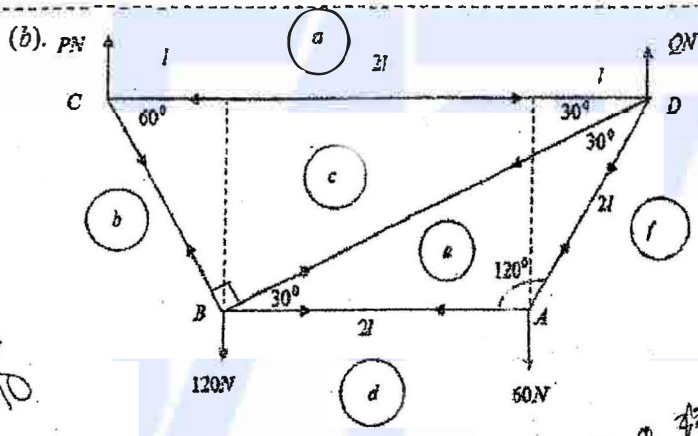

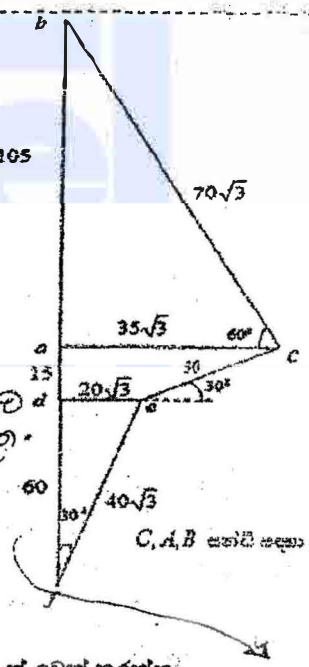

C, A, B සන්ධි සඳහා ප්‍රත්‍යාබල සටහන

D ↻ $\quad P\times 4l = 120\times 3l + 60\times l$

$P = 105N$

ප්‍රත්‍යාබල සටහන නොමැතිව P හෝ Q සොයා ඇති නම් 10 ක් වෙන් කරන්න.

40

දණ්ඩ	විශාලත්වය	ආතති/තෙරපුම්
CD (ca)	$35\sqrt{3}$	තෙරපුම්
BC (bc)	$70\sqrt{3}$	ආතති
BD (ec)	30	ආතති
AB (ed)	$20\sqrt{3}$	ආතති
AD (fe)	$40\sqrt{3}$	ආතති

10 10 10 10 10

50

උසස් පෙළ විද්‍යා/ගණිත/කලා/වාණිජ හා තාක්ෂණ විෂය ධාරාවන්ට අදාල සියලුම ප්‍රශ්න පත්‍ර/සටහන් හා තවත් බොහෝ දෑ ලබා ගැනීමට පිවිසෙන්න www.alevelapi.com වෙත

16. අරය a හා පෘෂ්ඨීක ඝනත්වය σ වූ ඒකාකාර කුහර අර්ධගෝලීය කබොලක් එහි වෘත්තාකාර ගැටියෙහි තලයට සමාන්තර වූ ද O කේන්ද්‍රයේ සිට $a\cos\alpha$ දුරකින් වූ ද තලයකින් කැපූ විට ලැබෙන ඡින්නකයේ ගුරුත්ව කේන්ද්‍රය OC හි මධ්‍ය ලක්ෂ්‍යයේ පිහිටන බව අනුකලනයෙන් පෙන්වන්න; මෙහි C යනු කුඩා වෘත්තාකාර ගැටියෙහි කේන්ද්‍රය වේ.

එම σ පෘෂ්ඨීක ඝනත්වය ම සහිත අරම $a\sin\alpha$ වූ තුනී ඒකාකාර වෘත්තාකාර තැටියක දාරය ඉහත ඡින්නකයේ කුඩා වෘත්තාකාර ගැටියට දෘඪ ලෙස සවිකර භාජනයක් සාදා ඇත. මෙම භාජනයෙහි ගුරුත්ව කේන්ද්‍රය, OC මත O සිට $\left(\frac{1+\cos\alpha-\cos^2\alpha}{1+2\cos\alpha-\cos^2\alpha}\right)a\cos\alpha$ දුරකින් පිහිටන බව පෙන්වන්න.

$\alpha=\frac{\pi}{3}$ යැයි ද භාජනයෙහි බර W යැයි ද ගනිමු. දිග b හා බර $\frac{W}{4}$ වූ සිහින් ඒකාකාර AB දණ්ඩක් මිටක් ලෙස, O, A හා B ලක්ෂ්‍ය ඒක රේඛීය වන පරිදි, රූපයේ දැක්වෙන අයුරින් භාජනයේ ගැටියට දෘඪ ලෙස සවිකර පාෂ්පානක් සාදා ඇත. සාස්පානෙහි ගුරුත්ව කේන්ද්‍රයේ පිහිටීම සොයන්න.

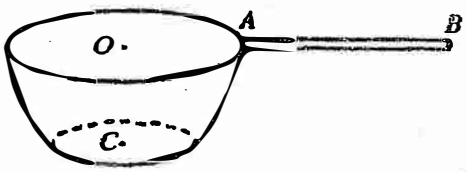

සාස්පාන, මීටෙහි B කෙළවරෙන් නිදහසේ එල්ලා ඇති අතර, මිට යටි අත් සිරස සමඟ $\tan^{-1}\left(\frac{1}{7}\right)$ කෝණයක් සාදමින් සමතුලිතතාවයේ එල්ලෙයි. $3b=4a$ බව පෙන්වන්න.

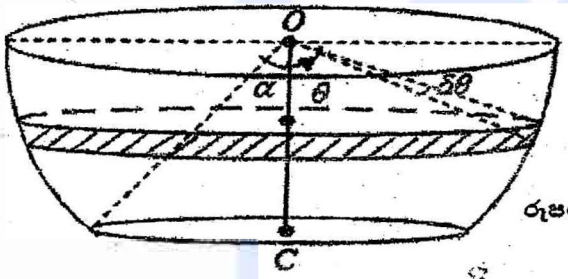

සමමිතියෙන් ගුරුත්ව කේන්ද්‍රය OC මත පිහිටයි. (5)

O සිට ගුරුත්ව කේන්ද්‍රයට දුර $\bar{x}$ ලෙස ගනිමු.

රූපයේ දැක්වෙන අක්ෂානුක මුද්‍රාවේ බර

$$=(2\pi a\sin\theta)a\delta\theta\sigma g$$

$$=2\pi a^2\sigma g\sin\theta\delta\theta$$

(10)

$$\text{එවිට } \bar{x}=\frac{\int_{\alpha}^{\pi/2}2\pi a^2\sigma g\sin\theta\cdot a\cos\theta\,d\theta}{\int_{\alpha}^{\pi/2}2\pi a^2\sigma g\sin\theta\,d\theta}$$

(10)

(5)

$$\bar{x}=a\frac{\int_{\alpha}^{\pi/2}2\sin\theta\cos\theta\,d\theta}{\int_{\alpha}^{\pi/2}2\sin\theta\,d\theta}$$

$$=\frac{\left[-\frac{\cos2\theta}{2}\right]_{\alpha}^{\pi/2}}{\left[-2\cos\theta\right]_{\alpha}^{\pi/2}}a=\frac{1}{4}\frac{(1+\cos2\alpha)}{\cos\alpha}a=\frac{1}{2}\frac{\cos^2\alpha}{\cos\alpha}a=\frac{1}{2}a\cos\alpha$$

(5)

(5)

40

Alevel Lapi උසස් පෙළ විද්‍යා/ගණිත/කලා/වාණිජ හා තාක්ෂණ විෂය ධාරාවන්ට අදාල සියලුම ප්‍රශ්න පත්‍ර/සටහන් හා තවත් බොහෝ දෑ ලබා ගැනීමට පිවිසෙන්න www.alevelapi.com වෙත.

$\therefore$ ගුරුත්ව කේන්ද්‍රය OC හි මධ්‍යය ලක්ෂයේ පිහිටයි.

වස්තුව	බර	O සිට දුර
	$\sigma g \cdot 2\pi a^2 \cos\alpha$ (5)	$\frac{1}{2}a\cos\alpha$ (5)
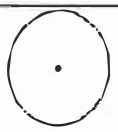	$\sigma g \pi a^2 \sin^2\alpha$ (5)	$a\cos\alpha$ (5)
	$\sigma g \pi a^2(2\cos\alpha+\sin^2\alpha)$ (5)	$\bar{y}$

සමමිතියෙන් ගුරුත්ව කේන්ද්‍රය OC මත O සිට $\bar{y}$ දුරකින් පිහිටයි; මෙහි (5)

$$\sigma g \pi a^2(2\cos\alpha+\sin\alpha)\bar{y} = \sigma g 2\pi a^2\cos\alpha \times \frac{1}{2}a\cos\alpha + \sigma g \pi a^2 \sin^2\alpha \times a\cos\alpha \quad (10)$$

$$\bar{y} = \frac{a\cos\alpha(\cos\alpha+\sin^2\alpha)}{(2\cos\alpha+\sin\alpha)} = \left(\frac{1+\cos\alpha-\cos^2\alpha}{1+2\cos\alpha-\cos^2\alpha}\right)a\cos\alpha \quad (5)$$

45

$\alpha = \frac{\pi}{3}$ විට $\bar{y} = \left(\frac{1+\frac{1}{2}-\frac{1}{4}}{1+1-\frac{1}{4}}\right)\frac{a}{2} = \frac{5a}{14}$ (5)

වස්තුව	බර	AB සිට දුර	OC රේඛාවේ සිට දුර
	W	$\frac{5a}{14}$	0 (5)
	$\frac{W}{4}$	0 (5)	$a+\frac{b}{2}$ (5)
	$\frac{5W}{4}$ (5)	$\bar{Y}$	$\bar{X}$

Alevel Api උසස් පෙළ විද්‍යා/ගණිත/කලා/වාණිජ හා තාක්ෂණ විෂය ධාරාවන්ට අදාල සියලුම ප්‍රශ්න පත්‍ර/සටහන් හා තවත් බොහෝ දෑ ලබා ගැනීමට පිවිසෙන්න www.alevelapi.com වෙත.

AB $\frac{5W}{4}\overline{Y} = W\frac{5a}{14}$

$\overline{Y} = \frac{2a}{7}$ (10)

OC $\frac{5W}{4}\overline{X} = \frac{W}{4}\left(a+\frac{b}{2}\right)$

$\overline{X} = \frac{2a+b}{10}$ (10)

45

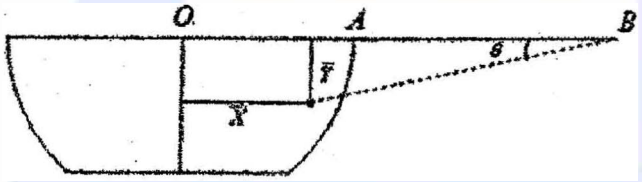

$\tan\theta = \frac{\overline{Y}}{\left(a+b-\overline{X}\right)}$ (10)

$\frac{1}{7} = \frac{\frac{2a}{7}}{a+b-\left(\frac{2a+b}{10}\right)} = \frac{20a}{7[8a+9b]}$ (5)

$8a+9b = 20a$

$4a = 3b$ (5)

20

උසස් පෙළ විද්‍යා/ගණිත/කලා/වාණිජ හා තාක්ෂණ විෂය ධාරාවන්ට අදාල සියලුම ප්‍රශ්න පත්‍ර/සටහන් හා තවත් බොහෝ දෑ ලබා ගැනීමට පිවිසෙන්න www.alevelapi.com වෙත.

17. (a) A හා B යනු Ω නියැදි අවකාශයක $P(B) > 0$ වන සිද්ධි දෙකක් යැයි ගනිමු. B දී ඇතිවිට A හි අසම්භාව්‍ය සම්භාවිතාව වූ $P(A|B)$ අර්ථ දක්වන්න.

$P(A) = P(B)P(A|B) + P(B')P(A|B')$ බව පෙන්වන්න; මෙහි $0 < P(B) < 1$ වන අතර B' මගින් B හි අනුපූරක සිද්ධිය දැක්වේ.

විශාල සමාගමක සේවා නියුක්තිකයන්ගෙන් 30% ක් පිරිමි වන අතර 20% ක් ගැහැණු වේ. සේවා නියුක්තිකයන්ගෙන් 57% කගේ ඉහළ ම අධ්‍යාපන සුදුසුකම අ.පො.ස. (සා.පෙළ) වන අතර 32% කගේ එම සුදුසුකම අ.පො.ස. (උ.පෙළ) වේ. අනික් සියලු ම සේවා නියුක්තිකයෝ උපාධිධාරීහු වෙති. මෙම සමාගමේ ගැහැණු සේවා නියුක්තිකයන්ගෙන් 40% කගේ ඉහළ ම අධ්‍යාපන සුදුසුකම අ.පො.ස. (සා.පෙළ) වන අතර 46% කගේ එම සුදුසුකම අ.පො.ස. (උ.පෙළ) වේ. සමාගමේ සේවා නියුක්තිකයන්ගෙන් එක් අයකු සසම්භාවී ලෙස තෝරා ගනු ලැබේ. එසේ තෝරාගනු ලැබූ සේවා නියුක්තිකයා,

(i) ඉහළ ම අධ්‍යාපන සුදුසුකම අ.පො.ස. (සා.පෙළ) වූ ගැහැණු කෙනකු වීම,

(ii) ඉහළ ම අධ්‍යාපන සුදුසුකම අ.පො.ස. (සා.පෙළ) වූ පිරිමි කෙනකු වීම,

(iii) පිරිමි කෙනකු බව දී ඇති විට, එම සේවා නියුක්තිකයා උපාධිධාරියකු වීම,

(iv) උපාධිධාරියකු නොවන බව දී ඇති විට එම සේවා නියුක්තිකයා ගැහැණු කෙනකු වීම,

යන සිද්ධීන් එක එකෙහි සම්භාවිතාව සොයන්න.

(b) $\{x_1, x_2, \ldots, x_n\}$ යන දත්ත තුලකයෙහි මධ්‍යන්‍යය හා විචලතාව පිළිවෙළින් $\bar{x}$ හා σ_x^2 යැයි ගනිමු.

(i) $\sigma_x^2 = \frac{1}{n}\sum_{i=1}^{n} x_i^2 - \bar{x}^2$ බව පෙන්වන්න.

(ii) α හා β තාත්ත්වික නියත යැයි ගනිමු. $\sum_{i=1}^{n}(\alpha x_i + \beta)^2 = n\alpha^2\sigma_x^2 + n(\alpha\bar{x} + \beta)^2$ බව පෙන්වන්න.

$i = 1, 2, \ldots, n$ සඳහා $y_i = \alpha x_i + \beta$ යැයි ගනිමු. $\bar{y} = \alpha\bar{x} + \beta$ බව පෙන්වා, ඉහත (i) හා (ii) භාවිතයෙන් $\sigma_y^2 = \alpha^2\sigma_x^2$ බව අපෝහනය කරන්න; මෙහි $\bar{y}$ හා σ_y^2 යනු පිළිවෙළින් $\{y_1, y_2, \ldots, y_n\}$ තුලකයෙහි මධ්‍යන්‍යය හා විචලතාව වේ.

එක්තරා විභාගයක දී අපේක්ෂකයින් ලබා ගත් ලකුණුවල මධ්‍යන්‍යය 45 ක් වේ. මෙම ලකුණු, මධ්‍යන්‍යය 50 ක් හා සම්මත අපගමනය 15 ක් වන පරිදි එකස් ලෙස පරිමාණගත කළ යුතුව ඇත. පරිමාණගත ලකුණ වන 68 යන්නට අනුරූප මුල් ලකුණ 60 බව දී ඇත. මුල් ලකුණුවල සම්මත අපගමනය ගණනය කරන්න.

අපේක්ෂකයකු ලබා ගත් මුල් ලකුණ වූ m, ඉහත පරිමාණගත කිරීමෙන් අඩු නොවන බව තවදුරටත් දී ඇත. $m \geq 20$ බව පෙන්වන්න.

(a) $P(A|B) = \dfrac{P(A \cap B)}{P(B)}$ 5 05

උසස් පෙළ විද්‍යා/ගණිත/කලා/වාණිජ හා තාක්ෂණ විෂය ධාරාවන්ට අදාල සියලුම ප්‍රශ්න පත්‍ර/සටහන් හා තවත් බොහෝ දෑ ලබා ගැනීමට පිවිසෙන්න www.alevelapi.com වෙත.

5

$P(A) = P((A \cap B) \cup (A \cap B'))$ $[\because (A \cap B) \cup (A \cap B') = A \cap (B \cup B') = A \cap \Omega = A]$

$= P(A \cap B) + P(A \cap B')$ [$\because A \cap B$ & $A \cap B'$ අන්‍යෝන්‍ය වශයෙන් බහිෂ්කාර බැවින්]

$= \frac{P(B)P(A \cap B)}{P(B)} + \frac{P(B')P(A \cap B')}{P(B')}$

$= P(B)P(A|B) + P(B')P(A|B')$

15

M – පිරිමි F – ගැහැණු

OL - උපරිම සුදුසුකම O/L

AL - උපරිම සුදුසුකම A/L

G - උපාධිධාරීන්

$P(M) = 0.8$ $P(F) = 0.2$

$P(OL) = 0.57$ $P(AL) = 0.32$ $P(G) = 0.11$

$P(OL|F) = 0.4$ $P(AL|F) = 0.45$

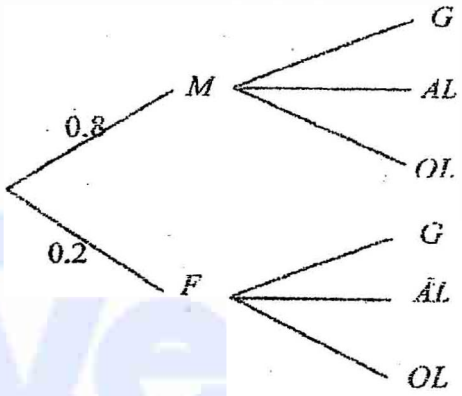

(i) $P(F \cap OL) = P(F)P(OL|F)$

$= 0.2 \times 0.4 = 0.08$

10

(ii) $P(OL) = P(OL \cap M) + P(OL \cap F)$

$P(M \cap OL) = 0.57 - 0.08 = 0.49$

10

(iii) $P(G|M) = ?$

$P(G) = P(M)P(G|M) + P(F)P(G|F)$

$0.11 = 0.8 \times P(G|M) + 0.2 \times (1 - 0.4 - 0.45)$

$P(G|M) = \frac{0.11 - 0.03}{0.8} = \frac{0.08}{0.8} = \frac{1}{10} = 0.1$

15

(iv) $P(F|G') = \frac{P(F \cap G')}{P(G')} = \frac{P(F)P(G'|F)}{1 - P(G)}$

$= \frac{0.2 \times (0.40 + 0.45)}{1 - 0.11} = \frac{17}{89}$

20

උසස් පෙළ විද්‍යා/ගණිත/කලා/වාණිජ හා තාක්ෂණ විෂය ධාරාවන්ට අදාල සියලුම ප්‍රශ්න පත්‍ර/සටහන් හා තවත් බොහෝ දේ ලබා ගැනීමට පිවිසෙන්න www.alevelapi.com වෙත.

17. (b) $\bar{x} = \frac{1}{n}\sum_{i=1}^{n} x_i$ $\qquad \sigma_x^2 = \frac{1}{n}\sum_{i=1}^{n}(x_i - \bar{x})^2$

(i) $\sigma_x^2 = \frac{1}{n}\sum_{i=1}^{n}\left(x_i^2 - 2x_i\bar{x} + \bar{x}^2\right)$ 5

$= \frac{1}{n}\sum_{i=1}^{n} x_i^2 - 2\bar{x}\frac{1}{n}\sum_{i=1}^{n} x_i + \frac{1}{n}\bar{x}^2\sum_{i=1}^{n} 1 \qquad = \frac{1}{n}\sum_{i=1}^{n} x_i^2 - 2\bar{x}^2 + \frac{1}{n}\bar{x}^2 \times n$ 5

$= \frac{1}{n}\sum_{i=1}^{n} x_i^2 - \bar{x}^2.$ 10

(ii) $\sum_{i=1}^{n}(\alpha x_i + \beta)^2 = \sum_{i=1}^{n}(\alpha^2 x_i^2 + 2\alpha\beta\, x_i + \beta^2)$

$= \alpha^2\sum_{i=1}^{n} x_i^2 + 2\alpha\beta\sum_{i=1}^{n} x_i + \sum_{i=1}^{n}\beta^2$ 5

$= \alpha^2\left\{n\sigma_x^2 + n\bar{x}^2\right\} + 2\alpha\beta\, n\,\bar{x} + n\beta^2$ 5 as $n\sigma_x^2 = \sum_{i=1}^{n} x_i^2 - n\bar{x}^2$

$= n\alpha^2\sigma_x^2 + n\left\{\alpha^2\bar{x}^2 + 2\alpha\beta\bar{x} + \beta^2\right\}$

$= n\alpha^2\sigma_x^2 + n(\alpha\bar{x} + \beta)^2$ 5

15

තවත් ක්‍රමයක් $\sum_{i=1}^{n}(\alpha x_i + \beta)^2 = \sum_{i=1}^{n}[\alpha(x_i - \bar{x}) + \alpha\bar{x} + \beta]^2$

$= \sum_{i=1}^{n}\left\{\alpha^2(x_i - \bar{x})^2 + 2(\alpha\bar{x} + \beta)\alpha(x_i - \bar{x}) + (\alpha\bar{x} + \beta)^2\right\}$ 5

$= \alpha^2\sum_{i=1}^{n}(x_i - \bar{x})^2 + 2\alpha(\alpha\bar{x} + \beta)\sum_{i=1}^{n}(x_i - \bar{x}) + \sum_{i=1}^{n}(\alpha\bar{x} + \beta)^2$

$= \alpha^2 n\sigma_x^2 + 2\alpha(\alpha\bar{x} + \beta)\left(\sum_{i=1}^{n} x_i - \sum_{i=1}^{n}\bar{x}\right) + (\alpha\bar{x} + \beta)^2 n$ 5

$= n\alpha^2\sigma_x^2 + 2\alpha(\alpha\bar{x} + \beta)(n\bar{x} - n\bar{x}) + n(\alpha\bar{x} + \beta)^2$ 5

$= n\alpha^2\sigma_x^2 + n(\alpha\bar{x} + \beta)^2.$

15

$\bar{y} = \frac{1}{n}\sum_{i=1}^{n} y_i \quad = \frac{1}{n}\sum_{i=1}^{n}(\alpha x_i + \beta)$ 5 $= \alpha\frac{1}{n}\sum_{i=1}^{n} x_i + \frac{1}{n}\sum_{i=1}^{n}\beta$

$= \alpha\bar{x} + \beta\frac{1}{n}n$

$= \alpha\bar{x} + \beta.$ 5

10

Alevel Lapi උසස් පෙළ විද්‍යා/ගණිත/කලා/වාණිජ හා තාක්ෂණ විෂය ධාරාවන්ට අදාල සියලුම ප්‍රශ්න පත්‍ර/සටහන් හා තවත් බොහෝ දෑ ලබා ගැනීමට පිවිසෙන්න www.alevelapi.com වෙත.

$\because y_i = \alpha x_i + \beta$, by (ii)

$$\sum_{i=1}^{n} y_i^{\,2} = n\alpha^2\sigma_x^{\,2} + n\bar{y}^2$$ (5)

$$\therefore \frac{1}{n}\sum_{i=1}^{n} y_i^{\,2} - \bar{y}^2 = \alpha^2\sigma_x^{\,2}$$

$\therefore$ (i)නේ, $\sigma_y^{\,2} = \alpha^2\sigma_x^{\,2}$. (5)

10

ලකුණු කුලකය $\{x_1, x_2, \ldots, x_n\}$ යැයි ගනිමු.

$\bar{x} = 45$ බව දී ඇත.

පරිමාණගත ලකුණු $y_i = \alpha x_i + \beta$ යැයි ගනිමු. එවිට $\bar{y} = 50$ හා $\sigma_y^{\,2} = 15$ වේ.

$\bar{y} = \alpha\bar{x} + \beta \Rightarrow 50 = 45\alpha + \beta$ ---------- (i) (5)

කවද, $y_i = 68$ වනවිට $x_i = 60$ බව දී ඇත.

$\Rightarrow 68 = 60\alpha + \beta$ ---------- (ii) (5)

(i) හා (ii) $\Rightarrow 15\alpha = 18$

$\therefore \alpha = \frac{6}{5}$. } (5)

$\beta = 50 - 45\times\frac{6}{5} = -4$

$\sigma_y^{\,2} = \alpha^2\sigma_x^{\,2} \Rightarrow 15 = \frac{6}{5}\sigma_x^{\,2}$

$\therefore \sigma_x^{\,2} = \frac{15\times 5}{6} = 12.5$ (5)

20

$x_i = m \Rightarrow y_i \geq m$.

$\Rightarrow \frac{6}{5}x_i - 4 \geq m$ (5)

$\Rightarrow \frac{6}{5}m - 4 \geq m$

$\Rightarrow \frac{m}{5} \geq 4$ (5)

$\Rightarrow m \geq 20$.

10

උසස් පෙළ විද්‍යා/ගණිත/කලා/වාණිජ හා තාක්ෂණ විෂය ධාරාවන්ට අදාල සියලුම ප්‍රශ්න පත්‍ර/සටහන් හා තවත් බොහෝ දේ ලබා ගැනීමට පිවිසෙන්න www.alevelapi.com වෙත.